／32

第 33 期プロテスト筆記① 30 分 名前＿＿＿＿＿＿＿＿

■次の牌姿の点数を答えなさい。※ドラはないものとする　（各１点）

1）**東場　東家**



ツモ＿＿＿＿＿＿＿＿　オール　ロン＿＿＿＿＿＿＿＿

ツモ＿＿＿＿＿＿＿＿　オール　ロン＿＿＿＿＿＿＿＿

2）**東場　南家　リーチあり**

ツモ＿＿＿＿＿＿＿＿，＿＿＿＿＿＿＿＿　ロン＿＿＿＿＿＿＿＿

ツモ＿＿＿＿＿＿＿＿，＿＿＿＿＿＿＿＿　ロン＿＿＿＿＿＿＿＿

3）**東場　西家　リーチなし**

ツモ＿＿＿＿＿＿＿＿，＿＿＿＿＿＿＿＿　ロン＿＿＿＿＿＿＿＿

ツモ＿＿＿＿＿＿＿＿，＿＿＿＿＿＿＿＿　ロン＿＿＿＿＿＿＿＿

4）**東場　北家　リーチなし**



ツモ＿＿＿＿＿＿＿＿，＿＿＿＿＿＿＿＿　ロン＿＿＿＿＿＿＿＿

ツモ＿＿＿＿＿＿＿＿，＿＿＿＿＿＿＿＿　ロン＿＿＿＿＿＿＿＿

5）**南場　東家　リーチあり**



ツモ＿＿＿＿＿＿＿＿　オール　ロン＿＿＿＿＿＿＿＿

ツモ＿＿＿＿＿＿＿＿　オール　ロン＿＿＿＿＿＿＿＿

6）**南場　南家**



ツモ＿＿＿＿＿＿＿＿，＿＿＿＿＿＿＿＿　ロン＿＿＿＿＿＿＿＿

ツモ＿＿＿＿＿＿＿＿，＿＿＿＿＿＿＿＿　ロン＿＿＿＿＿＿＿＿

7）**南場　西家　リーチなし**

ツモ＿＿＿＿＿＿＿＿，＿＿＿＿＿＿＿＿　ロン＿＿＿＿＿＿＿＿

ツモ＿＿＿＿＿＿＿＿，＿＿＿＿＿＿＿＿　ロン＿＿＿＿＿＿＿＿

8）**南場　北家　リーチなし**



ツモ＿＿＿＿＿＿＿＿，＿＿＿＿＿＿＿＿　ロン＿＿＿＿＿＿＿＿

ツモ＿＿＿＿＿＿＿＿，＿＿＿＿＿＿＿＿　ロン＿＿＿＿＿＿＿＿

／38

第 33 期プロテスト筆記② 30 分 名前＿＿＿＿＿＿＿＿

■次の牌姿の時、待ちとなる牌を全て答えなさい（※算用数字で記入すること）　（各２点）

※答えは数の小さいものから順に記入すること、自分で４枚持っている牌は待ちには含まない

1）

2） 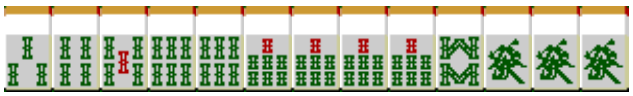

3） 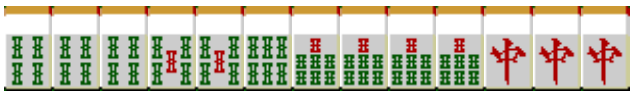

4） 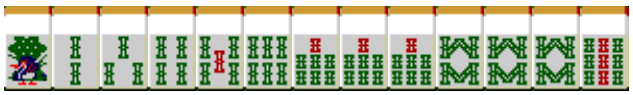

5） 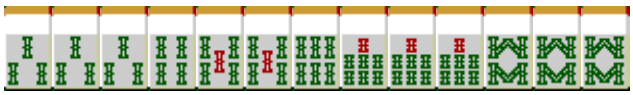

6） 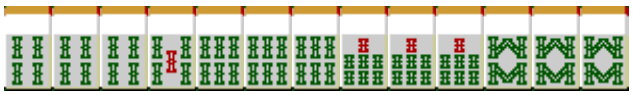

7）

8） 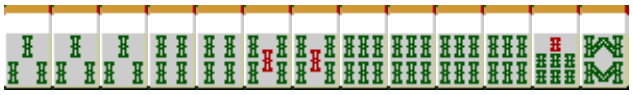

9） 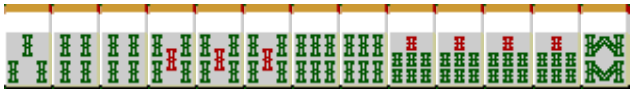

10） 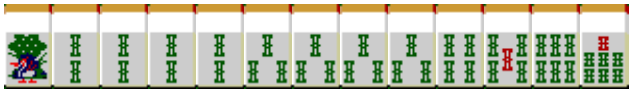

1		2	
3		4	
5		6	
7		8	
9		10	

■以下の牌姿、チンイツのイーシャンテンである　（両方正解で２点）

ここに各ソーズの牌を引いてきた時、何を切ると待ちの枚数が一番多くなるか答えよ。

また、その牌を切った場合の待ちも答えよ。またテンパイしない場合は解答欄２箇所に×を付けよ。

※待ちの枚数が同じ場合、高い打点を見込めるほうを正解とする

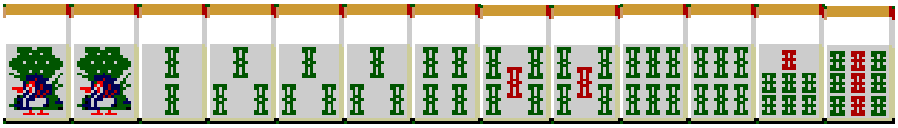

	切る牌	待ちになる牌		切る牌	待ちになる牌
					

／30

第33期プロテスト筆記③-1 30分 名前＿＿＿＿＿＿＿＿

■次の全体牌図は、第10期女流桜花決定戦3回戦の南4局2本場、供託1000点、親の第一打時点での全員の手牌と点数状況を示したものである。これを見て、以下の設問に答えよ。　※対局ルールは日本プロ麻雀連盟競技ルール(Aルール)とする

(1)各家の手牌のシャンテン数をそれぞれ答えよ。(例：1シャンテン)　(各1点)

東家＿＿＿＿＿シャンテン　南家＿＿＿＿＿シャンテン

西家＿＿＿＿＿シャンテン　北家＿＿＿＿＿シャンテン

(2)北家[吾妻]は、何点アガればこの半荘をプラス(浮き)で終了できるか。　(各1点)

出アガリ･ツモアガリ、それぞれの場合を答えよ。

※実際に存在する、必要最小条件のアガリ点数を積み棒を含めずに記入すること(例：2600　700, 1300)

※他家からのリーチは考慮しないこと

出アガリ＿＿＿＿＿＿＿＿＿＿　ツモアガリ＿＿＿＿＿,＿＿＿＿＿＿

(3)南家[宮内]、北家[吾妻]は、それぞれ何点アガればこの半荘をトップで終了できるか。　(各1点)

西家[和泉]からの出アガリ･西家以外からの出アガリ･ツモアガリ、それぞれの場合について答えよ。

※同点の場合、着順は下になるものとする　※解答方法･注意事項などは(2)に準ずるものとする

南家[宮内]　出アガリ［西家から］＿＿＿＿＿［西家以外から］＿＿＿＿＿ツモアガリ＿＿＿＿＿,＿＿＿＿＿

北家[吾妻]　出アガリ［西家から］＿＿＿＿＿［西家以外から］＿＿＿＿＿ツモアガリ＿＿＿＿＿,＿＿＿＿＿

第 33 期プロテスト筆記③-2　名前＿＿＿＿＿＿＿＿

この点数は、リーチ棒を出した後の点数である

■場面は進行し 9 巡目、、東家[二階堂]が上記の手牌でリーチをかけた。

(4) リーチの手順として正しいものを以下の①～⑥から１つ選んで答えよ。　（１点）

A. 牌を横向けに打牌する　B. リーチ料(1000 点)を供託する　C. 「リーチ」と宣言(発声)する

①A→B→C　②A→C→B　③B→A→C　④B→C→A　⑤C→A→B　⑥C→B→A　回答＿＿＿＿

(5) 東家[二階堂]のリーチの意図を答えよ。　（４点）

回答＿＿＿＿＿＿＿＿＿＿＿＿＿＿＿＿＿＿＿＿＿＿＿＿＿＿＿＿＿＿＿＿＿＿

＿＿＿＿＿＿＿＿＿＿＿＿＿＿＿＿＿＿＿＿＿＿＿＿＿＿＿＿＿＿＿＿＿＿

(6) 同じく 9 巡目、南家[宮内]の手牌は以下の形になっていた。　（各９点）

ドラ

この時、仮に をツモってテンパイし、同巡 で出アガリした場合のアガリ点を、以下の回答欄のスペースに計算式を用いて算出せよ。※供託･積み棒は加算しないこと

(7) 実戦譜では東家[二階堂]のリーチの次巡(10 巡目)、西家[和泉]が以下の手牌を東家[二階堂]から出アガリして終局した。

この時、順位点を含めた全員の最終得点をそれぞれ答えよ。　（各１点）

※東家以外の 3 者はリーチをかけていないものとする(例：+5.8　△9.0)

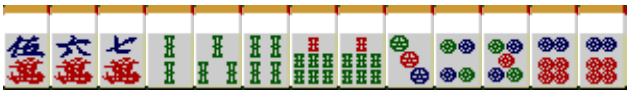

ロン 　ドラ

東家[二階堂]＿＿＿＿＿＿　南家[宮内]＿＿＿＿＿＿　西家[和泉]＿＿＿＿＿＿　北家[吾妻]＿＿＿＿＿＿

／32

第 33 期プロテスト筆記①

名前＿＿＿＿＿＿＿＿

■次の牌姿の点数を答えなさい。※ドラはないものとする　（各１点）

1）**東場　東家**



ツモ　2600　オール　ロン　5800

ツモ　700　オール　ロン　2000

2）**東場　南家　リーチあり**

ツモ　1300　,　2600　ロン　2600

ツモ　1300　,　2600　ロン　3200

3）**東場　西家　リーチなし**

ツモ　1300　,　2600　ロン　3200

ツモ　2000　,　4000　ロン　2000

4）**東場　北家　リーチなし**



ツモ　2000　,　4000　ロン　6400

ツモ　3000　,　6000　ロン　8000

5）**南場　東家　リーチあり**



ツモ　4000　オール　ロン　2400

ツモ　4000　オール　ロン　5800

6）**南場　南家**



ツモ　2000　,　4000　ロン　8000

ツモ　1500　,　2900　ロン　5200

7）**南場　西家　リーチなし**

ツモ　2000　,　4000　ロン　2900

ツモ　2000　,　4000　ロン　5800

8）**南場　北家　リーチなし**



ツモ　3000　,　6000　ロン　12000

ツモ　4000　,　8000　ロン　16000

／38

第 33 期プロテスト筆記②

名前＿＿＿＿＿＿＿＿＿＿

■次の牌姿の時、待ちとなる牌を全て答えなさい（※算用数字で記入すること）　（各２点）

※答えは数の小さいものから順に記入すること、自分で４枚持っている牌は待ちには含まない

1） 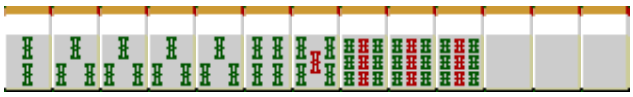

2） 

3） 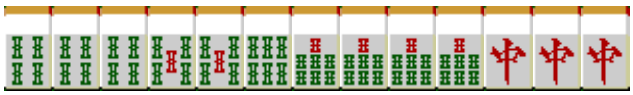

4） 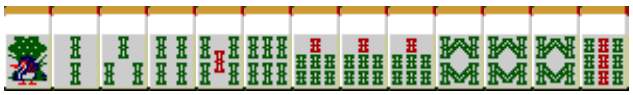

5） 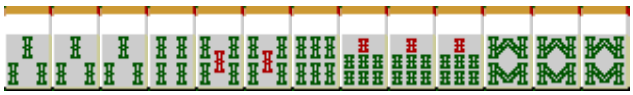

6） 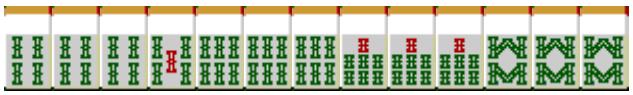

7）

8） 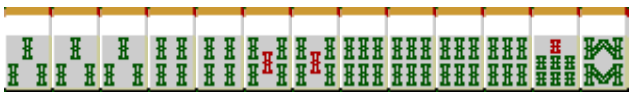

9） 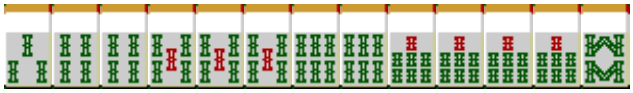

10） 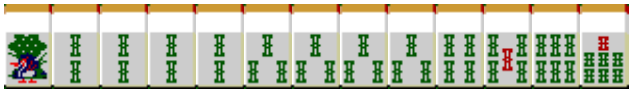

1	１２４５	2	２３５６８９
3	３５６８	4	７８９
5	３４５６７	6	３４５６７８９
7	２３４５６７８９	8	３４５９
9	２３５６８９	10	１４５７８

■以下の牌姿、チンイツのイーシャンテンである　（両方正解で２点）

ここに各ソーズの牌を引いてきた時、何を切ると待ちの枚数が一番多くなるか答えよ。

また、その牌を切った場合の待ちも答えよ。またテンパイしない場合は解答欄２箇所に×を付けよ。

※待ちの枚数が同じ場合、高い打点を見込めるほうを正解とする

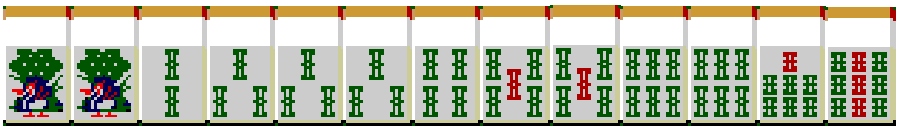

	切る牌	待ちになる牌		切る牌	待ちになる牌
	９	１　２　３　４　７		９	２
	９	１　２　３　６		１	８
	９	１　２　４　７		１	４　７
	１	８		２	１　９
	×	×			

／30

第 33 期プロテスト筆記③-1

名前＿＿＿＿＿＿＿＿

■次の全体牌図は、第 10 期女流桜花決定戦 3 回戦の南 4 局 2 本場、供託 1000 点、親の第一打時点での全員の手牌と点数状況を示したものである。これを見て、以下の設問に答えよ。　※対局ルールは日本プロ麻雀連盟競技ルール(A ルール)とする

(1)各家の手牌のシャンテン数をそれぞれ答えよ。(例：1 シャンテン)　(各 1 点)

東家＿＿2＿＿シャンテン　南家＿＿3＿＿シャンテン

西家＿＿3＿＿シャンテン　北家＿＿5＿＿シャンテン

(2)北家[吾妻]は、何点アガればこの半荘をプラス(浮き)で終了できるか。　(各 1 点)

出アガリ･ツモアガリ、それぞれの場合を答えよ。

※実際に存在する、必要最小条件のアガリ点数を積み棒を含めずに記入すること(例：2600　700, 1300)

※他家からのリーチは考慮しないこと

出アガリ＿＿4500＿＿　ツモアガリ＿＿1200＿＿,＿＿2300＿＿

(3)南家[宮内]、北家[吾妻]は、それぞれ何点アガればこの半荘をトップで終了できるか。　(各 1 点)

西家[和泉]からの出アガリ･西家以外からの出アガリ･ツモアガリ、それぞれの場合について答えよ。

※同点の場合、着順は下になるものとする　※解答方法･注意事項などは(2)に準ずるものとする

南家[宮内]　出アガリ［西家から］＿＿5200＿＿［西家以外から］＿＿12000＿＿ツモアガリ＿＿2000＿＿,＿＿3900＿＿

北家[吾妻]　出アガリ［西家から］＿＿7700＿＿［西家以外から］＿＿16000＿＿ツモアガリ＿＿4000＿＿,＿＿8000＿＿

第 33 期プロテスト筆記③-2　　名前＿＿＿＿＿＿＿＿＿＿

■場面は進行し 9 巡目、、東家[二階堂]が上記の手牌でリーチをかけた。

(4) リーチの手順として正しいものを以下の①～⑥から１つ選んで答えよ。　（１点）

A. 牌を横向けに打牌する　　B. リーチ料(1000 点)を供託する　　C.「リーチ」と宣言(発声)する

①A→B→C　②A→C→B　③B→A→C　④B→C→A　⑤C→A→B　⑥C→B→A　　回答＿⑤＿

(5) 東家[二階堂]のリーチの意図を答えよ。　（４点）

回答　例：供託等を含め 18000 点でトップ目に立つ為の打点向上。

例：相手の打牌に制限をかけ、進行を少しでも遅らせるため

※その他回答であっても整合性が取れていたら可とする。（１点～４点）

(6) 同じく 9 巡目、南家[宮内]の手牌は以下の形になっていた。(各１点)

ドラ

この時、仮に をツモってテンパイし、同巡 で出アガリした場合のアガリ点を、以下の回答欄のスペースに計算式を用いて算出せよ。※供託･積み棒は加算しないこと

符と翻数の算出	副底＝★２０符　門前加符＝★１０符　合計して★３０符 翻数＝場ゾロ２飜を含めて④★５翻
基本点の算出	基本点＝３０符×★2^5　＝★９６０　（３０×２の５乗）
アガリ点の算出	アガリ点＝９６０×★４＝★３８４０　これを切り上げて★３９００点

★の部分の書いてあれば
１つに付き１点。計９点

(7) 実戦譜では東家[二階堂]のリーチの次巡(10 巡目)、西家[和泉]が以下の手牌を東家[二階堂]から出アガリして終局した。

この時、順位点を含めた全員の最終得点をそれぞれ答えよ。　（各１点）

※東家以外の 3 者はリーチをかけていないものとする(例：+5.8　△9.0)

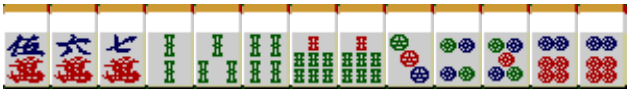

ロン 　ドラ

東家[二階堂]　△17.2　　南家[宮内]　+4.0　　西家[和泉]　+23.3　　北家[吾妻]　△10.1